
A
B
C
D
E
F


G

H


I


J


K

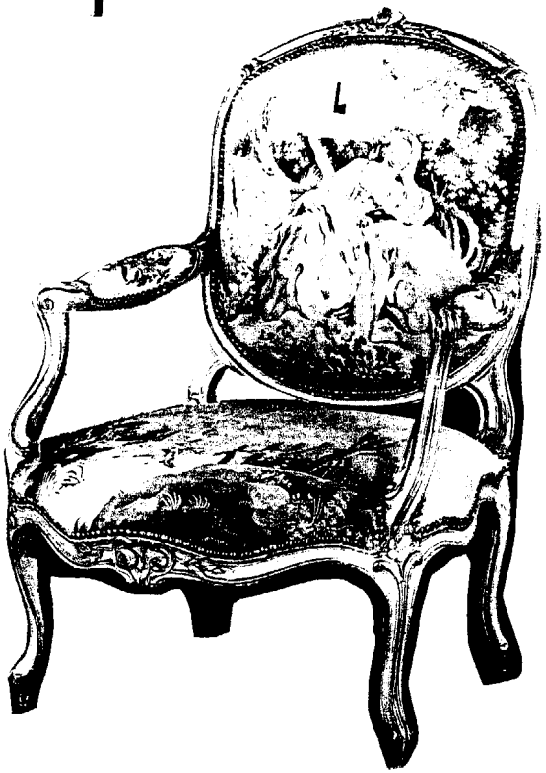
L

HISTOIRE DE L'ART

Vous classerez par ordre chronologique les 12 sièges présentés sur les pages 6 et 7. en inscrivant la lettre correspondant à chacun . dans la première colonne.
Puis vous renseignerez les colonnes suivantes.

Chronologie Lettre	Nom spécifique du siège	Style	Dates	Eléments caractéristiques	Nom et spécialité d'un créateur de ce style	Ne pas remplir Réservé aux corrections

Barème de correction : Chronologie : 4 points
Autres : 1 point par réponse exacte

Total _____ sur 100 divisé par 5 : note _____ sur 20