CAP ACCESSOIRISTE - RÉALISATEUR

Session **2005 (Juin)**

Épreuve EP2 - b) culture artistique

• **1-a** • Parmi les représentations qui vous sont proposés (2/2), constituez 5 groupes cohérents - c'est à dire de même style et de même époque que vous classerez de A à E par ordre chronologique du plus ancien au plus récent.

• **1-b** • Sélectionnez les documents numérotés de 1 à 15 qui correspondent à chacun des groupes.

• **1-c** • Datez approximativement chacun des groupes.

•A: .....date:.....

documents n°:.....

•B: .....date:.....

documents n°:.....

•C: .....date:.....

documents n°:.....

•D: .....date:.....

documents n°:.....

•E: .....date:.....

documents n°:.....

• **2** • Parmi cette liste de célébrités cochez les cases correspondantes à l'activité exercée par chacun des personnages, ainsi que la période d'exercice de celui-ci.

A-B-C-D-E se réfèrent aux différentes années vues dans la question • **1-c** •

	musique	architecture	peinture sculpture	design	danse	littérature	politique	A	B	C	D	E
Niki de St-Phalle												
François 1er												
Françoise Sagan												
Wagner												
Hector Guimard												
Néfertiti												
Nijinski												
Archimboldo												
Androuet du Cerceau												
Shakespeare												

N° D'INSCRIPTION DU CANDIDAT:.....



A



B

Ces deux chaises ont été conçues par Pierro Fornasetti vers 1955 -

• **3-a** • A quoi l'auteur fait-il référence sur chacun des documents:

doc A:.....

.....

doc B:.....

.....

• **3-b** • Que confronte le designer entre la partie supérieure (dossier) et la partie inférieure (assise et pieds) de l'ojet? Trouvez au moins 4 oppositions formelles dont vous exposerez succintement les propos.

.....

.....

.....

.....

.....

.....

.....

.....

.....

.....

.....

.....

.....

.....

.....

.....

.....

.....

1


7

15

6

10


2

5

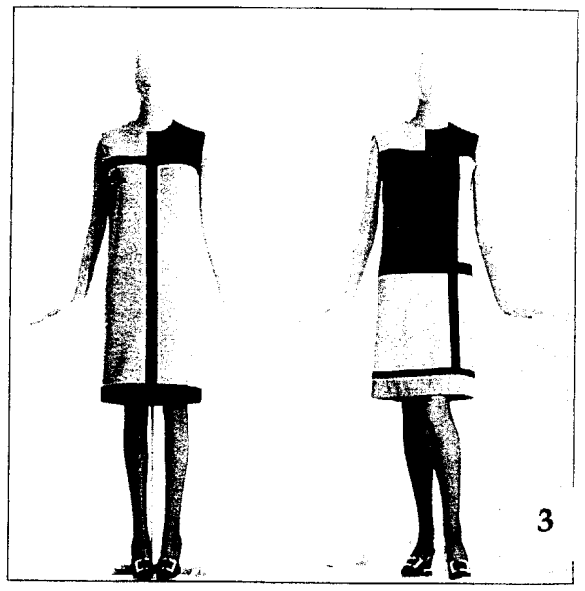
3


12


9

11

4

13

14


8

C.A.P. ACCESSOIRISTE RÉALISATEUR		
EP 2 culture artistique	1 heure	coef:2
Session Juin 2005	2/2	