RESEAU-CANOPE.FR

CANOPÉ

LE RÉSEAU DE CRÉATION
ET D'ACCOMPAGNEMENT PÉDAGOGIQUES

Ce document a été mis en ligne par le Canopé de l'académie de Montpellier pour la Base Nationale des Sujets d'Examens de l'enseignement professionnel.

Ce fichier numérique ne peut être reproduit, représenté, adapté ou traduit sans autorisation.

CORRIGE

Ces éléments de correction n'ont qu'une valeur indicative. Ils ne peuvent en aucun cas engager la responsabilité des autorités académiques, chaque jury est souverain.

Base Nationale des Sujets d'Examens de l'enseignement professionnel
Réseau Canopé

- Corrigé -

PARTIE CONSTRUCTION, PRÉPARATION ET TECHNOLOGIE

BARÈME

Construction - 5.5 points

- Respect des mesures 2 points
- Ajout des valeurs de couture 1 point
- Repères de montages 1 point
- Identification des éléments 0,5 point
- Qualité du travail 1 point

Solutions technologiques 3 points

- Section A-A 0,5 point
- Section B-B 0,5 point
- Section C-C 0,5 point
- Section D-D 0,5 point
- Section E-E 0,5 point

Questionnaire de technologie 6.5 points

- Question 1 (0,10 / rep) 1,5 point
- Question 2 0,5 point
- Question 3 0,5 point
- Question 4 4 points

TOTAL 15 points

Base Nationale des Sujets d'Examens de l'enseignement professionnel
Réseeau Canopé
CORRIGÉ

Solutions technologiques

Réaliser le schéma des différentes sections représentées sur le dessin technique dans le tableau ci-dessous.

En rapport avec le dessin de construction page 4/8.

Section	Schéma
A-A	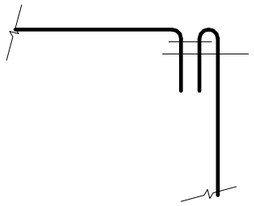
B-B	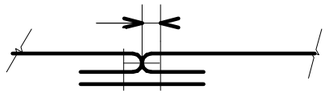
C-C	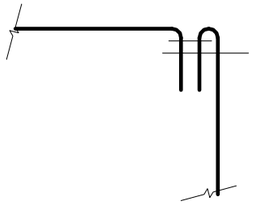
D-D	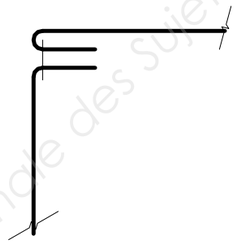
E-E	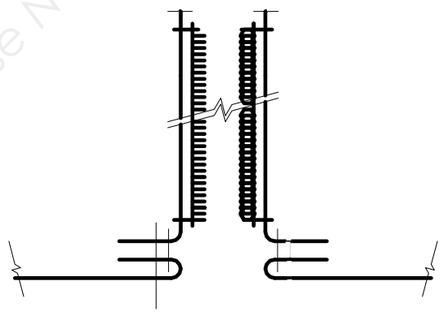

Questionnaire de technologie

1/ Nommer les différentes partie de la piqueuse plate.

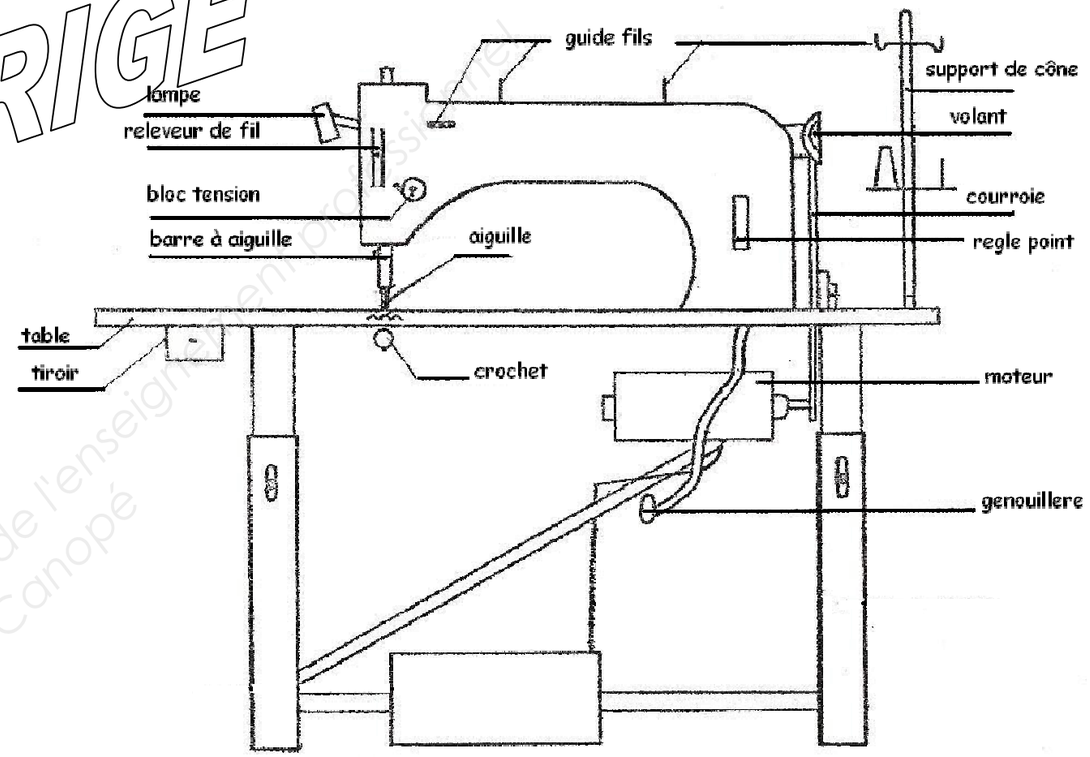

2/ Quels sont les dispositifs de sécurité que doit posséder une piqueuse plate ?

Les dispositifs de sécurité que doit posséder une piqueuse plate sont :

- le protège doigt
- le carter de sécurité de la courroie d'entrainement
- le protège front du releveur de fils
- le carter de protection du moteur
- le tapis anti dérapant de la pédale

3/ Donner la définition du textile enduit.

Le textile enduit est un matériau souple avec une armure toile ou Jersey ayant subi un apport de. matière synthétique (PVC) par enduction

CORRIGÉ
Base Nationale des Sujets d'Examens de l'enseignement professionnel
Réseau Canopé

4/ Déterminer le coup de revient du produit. Compléter le tableau ci-dessous.

DEVIS DE MATIERE D'OEUVRE					
Désignation	**Réf.**	**Coloris**	**P.U.**	**Qté**	**P H T**
Fils onyx	153602 03	blc	82.20 € les 6	1	13.70 €
TEP	14935	clémentine	507 € les 30m	0.80m	13.52 €
	14952	Jonquille	507 € les 30m	1.30m	21.97 €
Mousse HR 34	158560		161.50 € la plaque	1500x1100	83.27 €
Tresse coton		ecru	23.95 € les 50m	1.5m	0.71 €
Bande auto-agrippante	151865	blanc	68.00 € les 50m	0.30m	0.41 €
Fils de lin	154591	ecru	82 € les 10 bobines	1	8.20 €
				Total HT	141.78 €
				TVA 20%	28.36 €
				Prix TTC	170.14 €

CORRIGÉ
Base Nationale des Sujets d'Examens de l'enseignement professionnel
Réseau Canopé